高雄市立鼓山高中109學年度第一學期第一次段考《國二》國文科答案卷

二年____班_____號　姓名_____

選擇題	非選題	總分

一、國字注音(每字1分，共10分)

1.酒「ㄏㄢ」耳熱：	2.「ㄧㄟ」揚頓挫：	3.罰「鍰」：	4.「ㄉㄧㄢ」峰：
5.優「ㄨㄛㄟ」：	6.「漩」渦：	7.朝「暾」：	8.「褐」色：
9.「蝙」蝠：	10.「ㄏㄟ」好：		

二、解摘釋(1~8題，每題2分，9~12題，每題1分，共20分)

1.曼妙：	2.不求甚解：
3.天籟：	4.戰戰兢兢：
5.扶搖直上：	6.不知凡幾：
7.晏如：	8.無懈可擊：
9.朝「暾」：	10.「曾」不吝情去留：
11.「瑰」寶：	12.造飲「輒」盡：

三、改錯字(每格1分，共5分)

1.迫不急待　　2.飛蛾仆火　　3.慘不忍堵　　4.一程不變　　5.斧底抽薪

1.	2.	3.	4.	5.

四、默寫(每格1分，共5分)

1.先生不知何許人也，(　　)，宅邊有五柳樹，(　　)。

2.常著(　　)，(　　)。忘懷得失，以此自終。

3.黔婁之妻有言:「(　　)，不汲汲於富貴。」

高雄市立鼓山高中109學年度第一學期第一次段考《國二》國文科試題卷

考試範圍：南一版第一、二、四課、自學一　　**電腦讀卡代碼：01**　　二 年____班_____號　姓名_____

五、選擇題：(每題2分，共50分)

1. 下列選項「」中的注音寫成國字後，何組字形前後相同？
(A) 開「ㄏㄜˊ」自如／「ㄏㄜˊ」第光臨　(B)不「ㄅㄧˋ」風日／「ㄅㄧˋ」端叢生
(C) 一「ㄍㄨㄟˇ」作氣／一「ㄍㄨㄟˇ」味道　(D)青蔥「ㄘㄨㄟˋ」綠／乾「ㄘㄨㄟˋ」爽快

2. 下列選項「」中的形似字，何組讀音前後相同？
(A)黔「婁」之妻／「屢」建奇功　(B)「宛」轉有致／交際手「腕」
(C)有所希「冀」／比「翼」雙飛　(D)迎面「拂」來／自愧「弗」如

3. 「躺的詩，是指用文字印刷出來的詩；站的詩，是透過表演者在舞臺上將詩立體展現出來的。」根據白靈的論點，下列敘述何者不正確？
(A)詩的形式多元，不只一種表達方式　(B)詩可以透過文字表達，也可透過表演的形式傳達
(C)表演出來的詩，更能展現出詩人創作的原意　(D)詩可透過平面與立體兩種方式呈現

4. 石頭的生日快到了，樂團團員們興奮地討論慶生的地點。何人未使用到外來語？
(A)阿信：「去大飯店，有沙西米、壽司吃到飽耶！」　(B)瑪莎：「去KTV，可以唱歌，又有可樂可以無限暢飲。」
(C)怪獸：「去西餐廳好了，既羅曼蒂克又氣派。」　(D)石頭：「留在公司就好，請外燴來辦桌，有趣又熱鬧。」

5. 下列各選項「」中詞語的使用，何者不正確？
(A)每晚他都「不由自主」地完成當日功課，才安心入眠
(B)春天剛到，天氣「乍暖還寒」，如何穿著很令人困擾
(C)他因為「家徒四壁」，所以慈善單位決定定期接濟他的生活
(D)要是沒有孔明的「運籌帷幄」，劉備哪來掙得三分天下的機會

6. 「沿著河堤，我開始拉著天空奔跑」，使用了轉化修辭，下列何句也是轉化修辭?
(A)那成點狀分布的碧綠，竟是臥在沙地上安恬地晒著太陽的西瓜　(B)你說我像詩意的雨點，輕輕地飄上你的紅靨
(C)蒼茫茫的天涯路是你的漂泊，尋尋覓覓常相守是我的腳步　(D)門一打開，風就像一匹匹的黑馬也跟著狂奔進來

7. 「日常生活當中習以為的聲音，是我們建立起對一個城市的記憶。聲音的採集極妙之處便在於此，當我們聽到熟悉的聲音即可立刻產生起對一地的連結。」下列何者與這段文字的涵義相差最遠？
(A)聲音可以幫助我們紀錄生活周遭曾經發生的事物　(B)聲音會隨著時間消逝，是一種倏忽即逝的時間語言
(C)要對一個城市留下印象，可先試著採集城市的聲音　(D)即使時空異動，我們仍可藉由熟悉的聲音回憶過去

8. 「天空不斷開啟新的檔案和視窗／春天的時候，它為我們掃描了／萬紫千紅的花草圖像檔／夏天的午後，它常常打開／影音播放器，播一段／涼意盎然的雷陣雨」(節選自陳黎天空之窗)本詩中「萬紫千紅的花草圖像檔」是指什麼？
(A)電腦硬碟裡儲存的圖檔　(B)作者庭院裡栽種的花草
(C)綻放在夜晚天空的燦爛煙火　(D)春天百花盛開的美麗景象

9. 四位古代人物中，何者的個性與五柳先生有異曲同工之妙？
(A)閔子騫：母在一子寒，母去三子單
(B)子路：願車、馬、衣、輕裘與朋友共，敝之而無憾
(C)顏回：一簞食，一瓢飲，居陋巷，人不堪其憂，回也不改其樂
(D)曾子：吾日三省吾身；為人謀而不忠乎？與朋友交而不信乎？傳不習乎？

10. 下列「」中的字經替換後，何者意思改變了？
(A)不汲汲「於」富貴：在　(B)茲若人之「儔」乎：類
(C)「閑」靜少言，不慕榮利：閒　(D)短褐穿結，簞瓢屢空——晏「如」也：然

11. 「商業及媒體的洗腦，讓很多人以為錢多了就會快樂，方便就是幸福」;「人生沒有捷徑，幸福與快樂存在於每一次的腳踏實地時」，由徐仁修的文字風格及題材，我們可以判斷下列何者不是他想表達的意涵？
(A)人們要懂得追求幸福與快樂，否則就會淪為沒錢的下場
(B)人生沒有捷徑，只有靠自己努力開創，才能得到幸福的未來
(C)文明帶來看似進步，事實上是心靈上的退步；看似登上高樓，卻是空中樓閣
(D)物質並不能帶來心靈上真正的滿足

12. 下列關於油桐花編織的祕徑的分析，何者不正確？
(A)本文旨在敘寫作者進入森林、觀察自然，看見的油桐花美景與自己的感受
(B)「我戰戰兢兢地踩著落花前進，唯恐腳印破壞了這稀世白花地毯。」這段話指出作者擔心美麗的油桐花被遊客破壞殆盡
(C)「有那麼一剎那，我認為自己已丟棄了軀殼，正輕鬆自在又滿足地走上通往更高境界的地方」這段話意同「心凝形釋，與萬化冥合」
(D)「也只有像我這樣深入、珍惜大自然的人，才會受到邀請，才能找到這條美麗的祕徑。」意同「萬物靜觀皆自得，四時佳興與人同」

13. 所謂複詞，是由兩個或者兩個以上的字合成，而有些複詞在文中卻只偏重或僅存其中一個字的字義，這種複詞便稱為「偏義複詞」。下列何者是偏義複詞？
(A)做與不做，「得失」之間須弄清楚
(B)臺北火車站是南來北往的旅客「出入」北部的必經之地
(C)事有「輕重」緩急，要仔細思量，萬不可本末倒
(D)老師對待學生應當一視同仁，不可因親疏關係而有「異同」

14. 聲音鐘一文指出：聲音鐘所構築的是「心情的時間」，而非物理的時間。下列哪一種聲音不符合此特性？
(A)每天清晨，公園裡運動的人此起彼落的招呼聲，好不熱鬧，把小姿從睡夢中叫醒
(B)當阿中還在夢境中時，突然媽媽一聲大吼：「太陽都晒屁股啦！還不快起床準備上學！」把他嚇得趕緊跳下了床
(C)小庭最喜歡家中壁上的掛鐘，每到了整點時分，便會跑出一隻布穀鳥「布穀，布穀 」地向大家報時
(D)儀芳聽到窗外不客氣傳來的「豆奶喔，煎包喔，飯糰喔」叫賣聲，才想起原來自己忘了吃早餐

15. 「我送你一首小詩／用草原寫上羊群／用藍天寫上星星／我送你一首小詩／用碧波寫上海鷗／用地平寫上朝霞／我送你一首小詩／用稚心寫上天真／用眼睛寫上愛情／我愛這一首小詩啊／藉不停的流泉向你朗誦／再藉無盡的細雨向你傾吐」，詩中顯露的情感，與下列哪一選項有異曲同工之妙？
(A)念天地之悠悠，獨愴然而涕下
(B)入我相思門，知我相思苦
(C)採菊東籬下，悠然見南山
(D)故鄉今夜思千里，霜鬢明朝又一年

16. 老師要同學報告，關於白靈風箏一詩中風箏的象徵意義，請問下列哪個人答錯了？
(A)喬巴：「細細一線，卻想與整座天空拔河」象徵人以微弱的力量對抗外在環境
(B)柯南：「扶搖直上，小小的希望能懸得多高呢」象徵人高遠而不切實際的妄想
(C)小丸子：「沿著河堤，我開始拉著天空奔跑」象徵以小搏大的精神，充滿積極熱情
(D)蠟筆小新：「長長一生莫非這樣一場遊戲吧」象徵人生就是理想與現實拉鋸的遊戲

17. 陶淵明五柳先生傳中，下列各代詞所指的對象，何者說明錯誤？
(A)親舊知「其」如此，或置酒而招之：指「五柳先生」
(B)極「其」言：指「黔婁之妻」
(C)茲「若人」之儔乎：指「黔婁」
(D)以樂「其」志：指「無懷氏」

18. 蓉子：「一傘在握　開闔自如／闔則為竿為杖　開則為花為亭／亭中藏一個寧靜的我。」由詩意中，你能揣摩出作者的生命哲學近於下列何者？
(A)無入而不自得
(B)想左右天下的人，須先能左右自己
(C)先天下之憂而憂，後天下之樂而樂
(D)一個男子漢可以被毀滅，但不能被打敗

19. 下列選項「 」中的字，何組字義兩兩相同？
(A)「懸」得多高／「懸」壺濟世
(B)「極」其言／「極」大的野心
(C)相思樹競「相」開花／兩地「相」思
(D)冷「卻」下來／這「卻」不然

20. 豪哥讀完聲音鐘試著分析文章的寫作手法， 以下他的說明何者有誤？
(A)首段「我喜歡那些像鐘一般準確出現的小販的叫賣聲」點出主題，並表達作者的喜愛之情
(B)文章側重聽覺摹寫，運用譬喻展現小販叫賣聲的特色
(C)文中作者擔心賣烤番薯的阿伯為何遲遲不出現，可見作者以對聲音鐘帶有感情
(D)作者認為聲音鐘不僅能說明時間、日期和季節，也能抒發自己的心情

21. 在油桐花編織的祕徑中，作者使用了類似攝影中的不少手法。例如運用了特寫鏡頭來刻畫風景的細節。下列何者是使用「特寫鏡頭」來敘寫的文句？
(A)有許多落花在小瀑布下的漩渦中不斷地迴轉　(B)相思樹正彈放著小棉球般的金花，山風過處，繽紛如疏雨般落下
(C)把整條山徑鋪上了油桐花編織的白色長地毯　(D)在這片林子裡，我品嘗著福爾摩沙低海拔森林的美好

22. 下列對五柳先生傳一文的分析，何者錯誤？
(A)全文模仿「史書」傳記的形式，分兩部分：第一部分是傳，第二部分是贊
(B)本文是用第三人稱，旁觀者的立場來描寫的，因而顯得客觀真實
(C)全文以「造飲輒盡，期在必醉」為綱領
(D)「每有會意，便欣然忘食」和孔子「發憤忘食，樂以忘憂，不知老之將至」的境界相當

23. 在語文中，對事物的聲音、顏色、形體、情狀的各種感受，加以形容描繪的修辭技巧，稱為摹寫。下列何者屬於嗅覺兼觸覺的摹寫？
(A)空氣中滿含著濃淡適宜、令人愉悅的花香
(B)迎面拂來的微涼山風，飽含著各種野花的甜美香氣，還帶著一股五月陽光味道
(C)相思樹小花斷斷續續地由上方的林子飛落，點綴著鋪蓋池子的綠毯
(D)迎面而來的是許許多多雪片一般飛落的油桐花，飄盪著、旋轉著，好像仙女散花一般

24. 「有疑陶淵明詩篇篇有酒，吾觀其意不在酒，亦寄酒為跡者也。」根據蕭統在陶淵明集序的看法，陶淵明的詩作中多出現「酒」的原因是什麼？
(A)藉酒壯膽，言人所不敢言　(B)愛喝酒，所以以酒為主題　(C)寄託自己的心意　(D)催化寫作的靈感

25. 「臺灣歌謠」是集結許多傳統文化與鄉土氣息的歌謠。多數歌曲都是經由民間集體創作而成，並經由口語代代相傳，因此內容與臺灣社會傳統有著相當大的關聯。請問以下歌曲何者是在描繪傳統農村辛勞耕作的情景？
(A)火車行到伊都，阿末伊都丟／唉唷磅空內／磅空的水伊都，丟丟銅仔伊都，阿末伊都／丟仔伊都滴落來
(B)海風吹著小小城市／港都生活／全靠勇氣正義／提出勇氣尊重正義／做著好男兒／這就是霧夜的／港都好男兒
(C)頭戴竹笠喂／遮日頭啊喂／手牽著犁兄喂／行到水田頭／奈噯唷犁兄喂／日曝汗愈流／大家合力啊／來打拚噯唷喂
(D)獨夜無伴守燈下，冷風對面吹／十七八歲未出嫁，見著少年家／果然標緻面肉白，誰家人子弟／想要問伊驚呆勢，心內彈琵琶

六、閱讀題組：(每題 1 分，共 10 分)

（一）清香油紙傘　　陳幸蕙

「習習清風之中，逝者如斯，守住那一扇臨湖小窗，和窗外遼闊溫馨的田園大地，微笑的老師傅，安於他每日只完成一件精品的澹然。

多麼從容寧靜的湖畔歲月。這悠長美麗的做傘生涯，一枝枝修長光潤的稜骨，一葉葉刷上清香桐油的傘紙，一件件精工富麗、套色準確的圖案，都是在這樣不起波紋的止水心境下，細細經營琢磨，才展現出那樣扣人心弦的圓熟之美的。

可以想見，每一次日落時分，當金紅的夕暉推窗而來，一柄完美流利的傘已被完成，且正以無比嫻靜之姿，默立在小竹屋光滑潔淨的木板地上，那該是多麼莊嚴動人的一種景象！

一柄柄典雅細緻的傘，是一朵朵開闔自如、永不凋萎的花，次第綻放在老師傅樸素單純的生命世界裡；一天只開一朵的慎重，一天只開一朵的嚴肅，一天只開一朵的浪漫啊！於是山城的油紙傘，遂與別地之傘完全不同地，有了她所獨具的珍異氣質。

26. 山城的油紙傘為什麼有獨具的珍異氣質？
(A)採用上好的桐油及稜骨　(B)老師傅重質不重量的執著　(C)田園溫馨氣息的陪襯　(D)老師傅擁有精良的傘技術

27. 文中「湖畔歲月」帶給老師傅的是什麼？
(A)製造紙傘的靈感　(B)取之不盡的桐油　(C)絡繹不絕的遊客　(D)純樸靜定的心境

（二）岳飛傳　　宋史

飛至孝，母留河北，遣人求訪迎歸。母有痼①疾，藥餌必親。母卒，水漿不入口者三日。家無姬侍。吳玠素服飛，願與交驩②，飾名姝遺③之。飛曰：「主上宵旰④，豈大將安樂時？」卻不受。玠益敬服。少豪飲，帝戒之曰：「卿異時到河朔，乃可飲！」遂絕不飲。帝初為飛營第⑤，飛辭曰：「敵未滅，何以家為！」

註：①痼：長久不癒之病。②驩：歡。③遺：送。④宵旰：勞苦。⑤營第：籌畫建屋。

28. 「帝戒之曰：『卿異時到河朔，乃可飲!』」原因為何？
(A)侍奉老母痼疾，必須保持清醒　(B)軍人待遇微薄，應該節省酒錢
(C)借酒澆愁，於事無補　(D)敵人未滅，大將應為國珍重

29. 本文主旨在說明什麼？
(A)岳飛孝順母親，效忠國君　(B)岳母教子有方，岳飛及時盡孝
(C)岳飛不愛美色，不受華屋　(D)吳玠敬服岳飛，高宗禮遇岳飛

（三）雜詩　　陶淵明

人生無根蒂，飄如陌上塵。
分散逐風轉，此已非常身。
落地為兄弟，何必骨肉親？
得歡當作樂，斗酒聚比鄰。
盛年不重來，一日難再晨。
及時當勉勵，歲月不待人。

30. 「落地為兄弟，何必骨肉親。」這兩句的意思是？
(A)兄弟墮落，被親人嫌棄　(B)四海之內都是兄弟
(C)即使是兄弟也未必能常相近　(D)父母不一定能得到子女的孝養

31. 這首詩的主旨是？
(A)寫世間人情之冷暖　(B)人生苦短，應及時把握　(C)勸人及時孝養親長　(D)寫人生在世的飄泊無依

（四）籃賽　　賀志堅

喧譁
隱沒於一聲尖銳的銀笛
　頃刻
世界在我的手上或腳下
　輾轉
　　迴旋
高飛
　　低滾
　追奔
　　馳騁
　跳躍
　　投擲
　任憑
兩極之間有多遠
　拋出
即肯定了距離毫無意義
　當我
豁出宇宙進入籃圈
　　驚慌
　　　喊叫
　　鼓掌
　　　狂笑
霎時為世界竟是如此渺小
　訝異

32. 下列文句，何者描寫觀眾的動作？
(A)輾轉/迴旋/高飛/低飛　(B)追奔/馳騁/跳躍/投擲
(C)喧譁/任憑/拋出/訝異　(D)驚慌/喊叫/鼓掌/狂笑

33. 下列何者是本詩特色？
(A)題材抽象，表現作者多變的心境　(B)用詞華麗精美，文句充滿想像力
(C)文句排列富有動感，充分掌握球員與觀眾的情緒　(D)善於從觀察細小微物，抒發人生感悟

（五）大樂必易　　徐麗紗

作曲家黃友棣主張好的音樂作品，必須「內容真摯，外型簡樸」。他指出長篇樂曲免不了場面鋪排與氣勢誇張，但感情必須真摯。如同貝多芬所說：「來自心靈的，乃進入到心靈去。」貝多芬第九號合唱交響曲快樂頌，僅以大調音階之前五音 do、re、mi、fa、sol 構成，卻單純易懂。因其單純，而利於開展；亦因其易懂，而討人喜愛。正如佛教揭示的「沙粒中有大千世界」。因此，他終身服膺「大樂必易，大禮必簡」的創作真理。電影笑傲江湖的主題曲滄海一聲笑由黃霑譜曲，黃霑生前受訪中指稱，他的音樂創作受到黃友棣所倡之「大樂必易」影響甚深，讓他在靈感枯竭時，能豁然靈通，樂思源源而來。

1987 年七月遷居南台灣高雄市，香港任教的私立大學無退休制度，黃友棣可說是兩袖清風地攜著簡單行李，就隻身飛抵高雄。他一生從未置產，生活奉行「極簡主義」。「錢」就他而言，永遠是過路財神，左手進右手出，顯然是「大樂必易」在生活中的實踐。高雄人視黃友棣為「人間音樂國寶」，1987 年十一月二十一日為他舉行一場歡迎音樂會，以表達音樂大師移居當地之至誠歡迎。

多年來，他憑藉著音樂之弓，努力將詩句之箭射進人們的心坎去。在許多人的合唱生命裡，黃友棣老師的歌是共同珍貴的回憶。

34. 「他憑藉著音樂之弓，努力將詩句之箭射進人們的心坎去。」這句話表示黃友棣教授的哪一項音樂主張？
(A)歌曲的旋律一定要優美化　(B)歌詞要以改善風俗為原則
(C)創作人人都能欣賞的音樂　(D)音樂須有淡泊名利的特性

35. 「大樂必易」的主要涵義為何？
(A)創作電影背景音樂　(B)歌詞一律用白話方言　(C)樂曲要能單純易懂　(D)音樂素養須從小培養

高雄市立鼓山高中 109 學年度第 1 學期第一次段考《國二》英語科閱讀試題卷

範圍：南一版英語 B3 L1~Review 1（課本＋習作）　　二年____班____號　姓名 _____

※請將答案寫在答案卷上　　英語閱讀試題佔段考英語總成績 80%

(A) 基礎題（60%）

一、寫出下列動詞的過去式：10 %（每題 1 分）

1. get　2. study　3. am　4. plan　5. run

6. are　7. read　8. know　9. invite　10. choose

二、根據句意，填入 ago, yesterday, last,because 或 so（注意大小寫）：10 %（每題 2 分）

1. My mom was a teacher five years _____, but she is a housewife now.

2. Julie was late _____ she didn't catch the bus.

3. _____ Jenny didn't like chocolate, she gave it to her sister.

4. Did you go to the swimming pool _____ afternoon? I didn't see you.

5. Edward visited his grandma last weekend, _____ he didn't come to our party.

三、根據提示，填入適當的字詞：18 %（每題 3 分）

baby / sweet / breakfast / children / pair / remember / music

1. The _____ won the game because they didn't give up.

2. John: Liam, when is Mia's potluck? Liam: Sorry, I don't _____.

3. My big sister had a _____ last night.　I am so happy.

4. Ted wore a new _____ of shoes today.

5. Susan, it's seven thirty in the morning.　I'm hungry.　Where can I get _____?

6. Lily really likes the candy.　It is so _____.

四、依提示作答：12 %（每題 4 分）

1. Are there any tables in the dining room today?（把 today 改成 yesterday，並將句子做適當變化）

2. Sam didn't go to school last Wednesday <u>because he was sick</u>.（依畫線部分造原問句）

3. Emma <u>watched the movie</u> two hours ago.（依畫線部分造原問句）

五、看圖詳答問題：10 %（每格 2 分）

	1. Q: What ____①____ Ryan and Anna do last Sunday? A: They ____②____ in the park ____③____ Sunday.
	2. Q: ____④____ Eric jog last weekend?　A: Yes, he ____⑤____ last weekend.

【背面尚有題目】

高雄市立鼓山高中 109 學年度第 1 學期第一次段考《國二》英語科閱讀試題卷

範圍：南一版英語 B3 L1~Review 1（課本＋習作）

(B) 挑戰題（40%）

六、克漏字選擇測驗：10%（每題 2 分）

（1~3）

(Peter, Mary, and Susan are on their way home.)

Peter: I called you many times last Saturday, but ____1.____. Where did you go?

Susan: Mary and I helped my neighbor, Mrs. Jones. She's 90 years old. She lives alone in a big house.

Peter: Really? What did you do?

Susan: ____2.____

Mary: Mrs. Jones has a parrot. I cleaned its cage. It's really noisy. It can speak some Chinese.

Peter: I see. Take me with you next time.

Susan: OK. You can wash the dishes and sweep the floor.

Peter: ____3.____

Susan: All right. By the way, can you bring some bird food for it?

Peter: No problem.

■ neighbor 鄰居 ■ alone 獨自地
■ cage 籠子 ■ noisy 吵雜的
■ speak 說 ■ floor 地板

(　) 1. (A) you were at school (B) you weren't at home (C) you are on the way home (D) you were not sick

(　) 2. (A) I cooked breakfast. (B) I ate dinner with her. (C) I don't know. (D) She cooked lunch with me.

(　) 3. (A) What else can I do? (B) I don't want to go. (C) No way! (D) Can I just teach the parrot some English?

（4~5）

Child brides were common in old China. Some girls were born in poor families, and ____4.____. Their parents sold them to different families. Then those girls married the sons in their new families, even those sons could be very young. Those girls helped with housework and took care care of their future husbands. ____5.____

■ raise up 扶養 ■ future 未來 ■ husband 丈夫 ■ housework 家事

(　) 4. (A) their mom and dad were so happy (B) their parents had a lot of money to celebrate their birthday (C) their parents had no money to raise them up (D) they had to go to school every day

(　) 5. (A) They had a happy life. (B) Their lives were not easy at all. (C) They had time to go home. (D) Their husbands were very old.

七、閱讀測驗：30%（每題 2 分）

（1~3）

Death is usually a taboo in Taiwan. It may bring bad luck when people talk about it. So, people seldom talk about it. In everyday life, people avoid anything about it. For example, there is no fourth floor in the hospital because "four" sounds like "death" in Chinese. Also, when people buy a new house, they don't like the door number with any "four" in it. Death really brings fear in Taiwan.

■ avoid 避免 ■ sound like 聽起來好像…

(　) 1. Which may be a good door number in Taiwan?
(A) 024 (B) 683 (C) 445 (D) 844

(　) 2. What does taboo mean?
(A) People are doing something. (B) People can do something.
(C) People can't do something. (D) People don't know something.

(　) 3. Why do people seldom talk about "death"?
(A) Because they are not happy. (B) Because they don't know how to talk about it.
(C) Because it may bring good luck. (D) Because it may bring bad luck.

【下頁尚有題目】

高雄市立鼓山高中 109 學年度第 1 學期第一次段考《國二》英語科閱讀試題卷

範圍：南一版英語 B3 L1~Review 1（課本＋習作）

（4~6）

Many people have pet dogs and pet cats, but about 37% of them have given up their pets because they didn't want sick or old pets. About 7.6 million cats and dogs go to animal shelters around the world every year. Because there are too many cats and dogs, people at the animal shelters must put some of them to death.

This terrible thing is happening everywhere. Guess what? Over two million cats and dogs lost their lives in animal shelters only in the US in 2019. Let's take action and help these animals!

First, never buy an animal from a pet shop. Adopt a cat or a dog from an animal shelter. Second, never give an animal as a gift. Nobody should have a pet unless they are ready. Last but not least（最後的但同樣重要的）, never give up your cats or dogs just because they are sick or old. Look after them and care for them until the last moment of their lives.

■ give up 放棄	■ shelters 收容所	■ everywhere 到處	■ unless 除非	■ until 直到

(　　) 4. In this reading, why did 37% of pet owners（主人）give up their pets?
(A) Because they were too busy.　(B) Because their pets hurt their family.
(C) Because they didn't want sick and old pets.　(D) Because their pets ate too much.

(　　) 5. What does the word adopt in the reading mean?
(A) Give someone a home.　(B) Bring someone money.　(C) Get married to someone.　(D) Buy a gift for someone

(　　) 6. Which is **NOT** true?
(A) We can't give up our pets because they are old.　(B) We can buy pet cats from a pet shop.
(C) Don't give an animal as a gift.　(D) Take care of our pet until the last moment of their lives.

（7~9）

Have Fun in Taiwan

Would you like to know how different and interesting Taiwan is? You are welcome to visit Taiwan; we will give you a Wow! Be ready to be amazed at Taiwan's special festivals!

Pingxi, Sky Lantern Festival, on the fifteen day of the first lunar month.	Tainan, Dragon Boat Festival, on the fifth day of the fifth lunar month.	Keelung, Ghost Day Ceremony, on the fifteenth day of the seventh lunar month.	Everywhere, Moon Festival, on the fifteenth day of the eighth lunar month.	Everywhere, Chinese New Year, on the first day of the first lunar month.
				

To get more information, get on our website: http://www.tbroc.gov.tw/

Tourism Bureau, Taiwan

■ lunar	陰曆的
■ ceremony	儀式
■ Tourism Bureau	觀光局

(　　) 7. What does the word Wow mean in the ad?
(A) Boring.　(B) Terrible.　(C) Trouble.　(D) Surprise.

(　　) 8. Vincent loves having barbecues. Which lunar month may she like most?
(A) August.　(B) July.　(C) September.　(D) January.

(　　) 9. How can foreigners know more if they are planning to visit Taiwan?
(A) On the phone.　(B) In a newspaper.　(C) On the Net.　(D) By letter.

【背面尚有題目】

高雄市立鼓山高中 109 學年度第 1 學期第一次段考《國二》英語科閱讀試題卷

範圍：南一版英語 B3 L1~Review 1（課本＋習作）

（10~12）

Movies in the Park

July is coming! Why not bring your family and friends to join our "Movies in the Park" activity? It's the sixth time we have the activity in the park. You can watch movie under the stars on a 20-foot screen for free. Every Friday and Saturday night in July, you can enjoy some great movies on the big screen there. Check our website to find out which movies are playing. See you there at 7:30 on Friday and Saturday night!

 # Notice for you:

1. Bring some snacks and drinks to enjoy movies with everyone.
2. Bring bug spray to keep bugs away.
3. Bring a picnic mat if you don't want to sit on the meadow.
3. Don't come to the park when it's rainy.

■ activity 活動 ■ notice 注意事項 ■ bug spray 防蟲噴霧 ■ mat 地墊 ■ if 假如

( ) 10. Which do you **NOT** need to take with you if you join the activity?
(A) Snacks. (B) Bug spray. (C) Umbrellas. (D) Drinks.

( ) 11. Which **CAN'T** you see in this ad?
(A) The things you have to bring. (B) The names of the movies playing.
(C) The name of the activity. (D) The time the movie start.

( ) 12. Which is true about the activity?
(A) You can enjoy movies there in July and August. (B) It is the first time to have the activity.
(C) You have to take some money to watch a movie there. (D) You can enjoy free movies two times a week in July.

（13~15）

Learning shouldn't be restricted to classrooms. It should be everywhere. For example, there are different outdoor education programs for junior high school students in Taiwan. For the seventh graders, they go hiking for one day with their homeroom teachers and classmates. They can observe nature and exercise at the same time. For eighth graders, they go camping for two or three days. When students camp out, four of them are in a group, and they work together on everything, such as putting up their tents, cooking, and play games. For the ninth graders, they have a three-day trip to another town and get to see the local life there.

Students must have several things with them before they go on any off-campus activities. First, they must have their ID cards and health insurance cards in case they have to see a doctor. Second, they need to bring their clothes if they stay overnight. They also should bring a hat, an umbrella, or a jacket depending on the weather forecast. Finally, it's fine to bring a cellphone and some cash. It's up to them.

■ restricted 受限的 ■ outdoor education 戶外教育 ■ grader 年級生 ■ observe 觀察 ■ tent 帳
■ local 當地的 ■ off-campus 校外的 ■ depend 取決於 ■ forecast 預報 ■ cash 現金

( ) 13. What is the reading about?
(A) Junior high school outdoor learning programs. (B) Junior high school students' class.
(C) Junior high school students' favorite activities. (D) Junior high school students' cellphones.

( ) 14. Where do you need your health insurance card?
(A) At a tent. (B) At a hospital. (C) At a museum. (D) At a night market.

( ) 15. What can we learn from the reading?
(A) Students learn about best in the classroom.
(B) The seventh graders learn nothing when they go hiking.
(C) The eighth graders learn to work with their classmates when they go camping.
(D) The ninth graders can only take a one-day trip to another town.

【英語閱讀試題到此頁全部結束】

高雄市立鼓山高中 109 學年度第 1 學期第一次段考《國二》英語科閱讀答案卷

範圍：南一版英語 B3 L1~Review 1（課本＋習作）　　二年＿＿＿班＿＿＿號　姓名＿＿＿＿＿＿＿＿

得　分

(A) 基礎題（60%）

一、寫出下列動詞的過去式：10 %（每題 1 分）

1	2	3	4		
5	6	7	8	9	10

二、根據句意，填入 ago, yesterday, last,because 或 so（注意大小寫）：10 %（每題 2 分）

1	2	3	4	5

三、根據提示，填入適當的字詞：18 %（每題 3 分）

1	2	3	4	5	6

四、依提示作答：12 %（每題 4 分）

1.
2.
3.

五、看圖詳答問題：10 %（每格 2 分）

1	2	3	4	5

(B) 挑戰題（40%）

六、克漏字選擇測驗：10%（每題 2 分）

1	2	3	4	5

七、閱讀測驗：30%（每題 2 分）

1	2	3	4	5	6	7	8	9	10
11	12	13	14	15					

高雄市立鼓山高中 109 學年度第 1 學期第一次段考《國二》英語科聽力試題卷

範圍：南一版英語 B3 L1~Review 1（課本＋習作）　　二年____班____號　姓名 _____

※請將答案直接劃在答案卡上。　　英聽代碼：22　　英語聽力成績佔段考英語總成績 20%

(　　) 9. (A)

(B)

(C)

(　　) 10. (A)



(B)

(C)



二、基本問答：30%（每題 3 分）

(　　) 11. (A) No, we didn't do it together.　(B) Yes, we enjoyed a big meal last night.
(C) Yes, I jogged with my friends every afternoon.

(　　) 12. (A) Where did you go?　(B) What did you plant?　(C) When was the show?

(　　) 13. (A) I watched it a few days ago.　(B) I was curious about the ending.　(C) It reminded me of my grandfather.

(　　) 14. (A) We were very sad.　(B) I was in the classroom.　(C) I didn't plant flower at the garden.

(　　) 15. (A) Nobody helped him.　(B) She didn't remember me.　(C) Because I didn't have enough money.

(　　) 16. (A) Are you Okay?　(B) Oh no, that's terrible.　(C) He did well yesterday.

(　　) 17. (A) I am fine.　(B) No, I didn't go to school today.　(C) It was busy. There were so many classes today.

(　　) 18. (A) My dad finally sold the house.　(B) Really? Let's buy a pair of shoes for dad.
(C) Dad went to see a doctor last Wednesday.

(　　) 19. (A) That's so sweet.　(B) When did you buy it?　(C) Because he was busy.

(　　) 20. (A) Guess what?　(B) Did she see a doctor?　(C) Why didn't you go to school?

三、言談理解：30 %（每題 3 分）

(　　) 21. (A) Terry's grandpa passed away.
(B) Terry and his mom were at the party on Sunday.
(C) The woman was at her grandpa's house on Sunday.

(　　) 22. (A) He went to work last Friday.　(B) His relative just passed away.　(C) He went to Taichung with the woman.

(　　) 23. (A) She didn't have a meal.　(B) She didn't cook a big meal.　(C) She didn't talk about touching stories with Rosa.

(　　) 24. (A) It was Jimmy's old car.　(B) The car was not very big.　(C) Nick sold the car last week.

(　　) 25. (A) They cleaned the desk.　(B) They walked on the street.　(C) They celebrated the New Year.

(　　) 26. (A) She didn't eat snacks.　(B) She didn't play games.　(C) She didn't buy clothes.

(　　) 27. (A) The boy's room was dirty.
(B) The boy didn't do the homework.
(C) The woman is collecting some paper boxes.

(　　) 28. (A) People dress up on Tomb Sweeping Day.
(B) People sweep tombs on Tomb Sweeping Day.
(C) People usually paint their face on Tomb Sweeping Day.

(　　) 29. (A) The girl doesn't like ghost stories.
(B) The girl read the story in her room.
(C) The boy is too scared, so he didn't read the story.

(　　) 30. (A) He fell in the living room.　(B) He hit the desk in the living room.　(C) His mom hit him in the living room.

【英語聽力試題到此頁全部結束】

高雄市立鼓山高中 109 學年度第 1 學期第一次段考《國二》英語科聽力試題卷

範圍：南一版英語 B3 L1~Review 1（課本＋習作）　　二年____班____號　姓名 _____

※請將答案直接劃在答案卡上。　　英聽代碼：22　　英語聽力成績佔段考英語總成績 20%

一、辨識句意：40%（每題 4 分）

(　　) 1. (A)



(B)



(C)

(　　) 2. (A)

(B)

(C)

(　　) 3. (A)

(B)

(C)

(　　) 4. (A)

(B)

(C)



(　　) 5. (A)

(B)

(C)

(　　) 6. (A)

(B)

(C)

(　　) 7. (A)

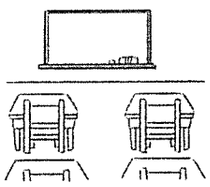

(B)



(C)

(　　) 8. (A)

(B)

(C)

【背面尚有題目】

高雄市立鼓山高中 109 學年度第一學期第一次段考《國二》數學科試題卷

考試範圍：第三冊 1-1~2-1　　____年____班_____號　姓名_____

一、選擇題：（每題 4 分，共 24 分）

1. （　）下列圖形面積的變化，可用哪一個式子表示？

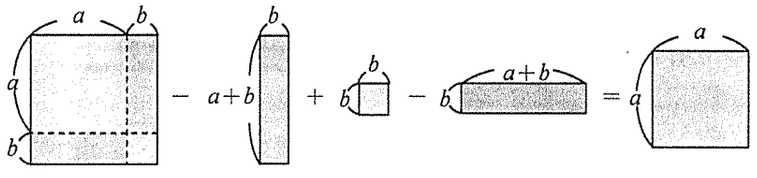

(A) $(a+b)^2-2(a+b)\cdot b+b^2=a^2$　　(B) $(a-b)^2+2(a+b)\cdot b+b^2=a^2$

(C) $(a+b)^2+2(a+b)\cdot b-b^2=a^2$　　(D) $(a-b)^2-2(a+b)\cdot b-b^2=a^2$。

2. （　）下列算式何者錯誤？

(A) $101^2=100^2+2\times100\times1+1^2$　　(B) $241^2-259^2=(241+259)(241-259)$

(C) $91^2=100^2-2\times100\times9-9^2$　　(D) $49^2=50^2-2\times50\times1+1^2$

3. （　）判斷下列各式的值，何者最大？

(A) $25\times13^2-15^2$　(B) $16\times17^2-18^2$　(C) $9\times21^2-13^2$　(D) $4\times31^2-12^2$

4. （　）下列何者為x的多項式?

(A) $\frac{1}{3}x^2-4$　(B) $\frac{1}{x+2}$　(C) $2x^2-6x+9=0$　(D) $|8x|+\frac{1}{9}$

5. （　）下列敘述何者正確？

(A) $(5x^2-1+6x)-5x^2$是一個二次多項式。

(B) $2x^2-3x-2$的常數項係數為 2。

(C) 因為找不到一個整數、分數、小數的平方等於 12，所以 12 沒有平方根。

(D) $\sqrt{81}$的平方根為±3。

6. （　）已知 $4.11^2=16.8921$，$4.12^2=16.9744$，$4.13^2=17.0569$，$4.14^2=17.1396$，$4.15^2=17.2225$，$4.16^2=17.3056$，$4.115^2=16.933225$，$4.125^2=17.015625$，$4.135^2=17.098225$，依上述數據，以四捨五入法，求$\sqrt{17}$的近似值到小數點後第二位的結果是多少？

(A) 4.10　(B) 4.11　(C) 4.12　(D) 4.13

二、填充題：（每格 4 分，共 56 分）

1. 已知正方形面積為 7，則其邊長為____①____。

2. 在空格中，填入適當的多項式：$6x\cdot$____②____$=-42x^2$。

3. 計算 $(39\frac{3}{4})^2+2\times39\frac{3}{4}\times\frac{1}{4}+(\frac{1}{4})^2=$ ____③____。

4. 利用乘法公式求 $177^2-2\times177\times77+77^2$之值＝____④____。

5. 設 $44^2-56^2=100\times a$，則 $a=$____⑤____。

6. $(2-a)x^3+(3b+12)x^2+4bx-2a+7$為$x$的一次多項式，求此多項式=____⑥____

7. 計算 $(x+6)(2x-1)=$ ____⑦____。(答案請按升冪排列)

8. 計算 $(5x^3+4x-6x^2)+(-x^2-4x+2)=$ ____⑧____。(答案請按升冪排列)

9. 計算 $(2x+1)(x-1)-(x^2+x-2)=$ ____⑨____。(答案請按降冪排列)

10. 若多項式 A 除以 $2x+1$ 得商式為 $3x-4$，餘式為 5，則 $A=$ ____⑩____。(答案請按降冪排列)

11. 求下列各數之值：

(1) 0.0036 的平方根為 ____⑪____。

(2) $\sqrt{2^6\times3^4\times5^2}=$ ____⑫____。

(3) $-\sqrt{1\frac{11}{25}}=$ ____⑬____。

12. 若 $\sqrt{2x-6}$ 是 144 的正平方根，且 $\sqrt{y}$ 的平方根為 ±2，則 $x+y=$ ____⑭____。

三、計算題：(共 20 分，需有計算過程)

1. 計算多項式 $(2x^3+8x^2-3x+1)$ 除以 $(2x^2-1)$ 後，所得之商式與餘式為何？(商式 3 分，餘式 2 分)

2. 利用乘法公式計算 $\sqrt{47\frac{1}{49}}$。(5 分)

3. 已知 $\sqrt{150}\fallingdotseq12.25$，且 a 為正整數，若 $\sqrt{150+a}$ 的值也是正整數，求

(1) a 的最小值為何？(3 分)

(2) 承上，此時 $\sqrt{150+a}=$？(2 分)

4. 已知 x 為正整數，且符號 $[\sqrt{x}]$ 表示 $\sqrt{x}$ 的整數部分，例如 $[\sqrt{6}]=2$，$[\sqrt{11}]=3$；若 $[\sqrt{1}]+[\sqrt{2}]+[\sqrt{3}]+\cdots\cdots+[\sqrt{n}]=38$，則 $n=$？(5 分)

高雄市立鼓山高中109學年度第一學期第一次段考《國二》數學科作答卷

考試範圍：第三冊 1-1~2-1　　____年____班_____號　姓名_____

一、單選題：（每題4分，共24分）

1	2	3	4	5	6

二、填充題：（每格4分，共56分）

①	②	③	④	⑤	⑥	⑦
⑧	⑨	⑩	⑪	⑫	⑬	⑭

三、計算題：(共20分，需有計算過程)

1. 計算多項式($2x^3+8x^2-3x+1$)除以($2x^2-1$)後，所得之商式與餘式為何？(商式3分，餘式2分)

2. 利用乘法公式計算 $\sqrt{47\frac{1}{49}}$ 。(5分)

3. 已知 $\sqrt{150}\fallingdotseq 12.25$，且 a 為正整數，若 $\sqrt{150+a}$ 的值也是正整數，求：(1) a 的最小值為何？(3分)

   (2)承上，此時 $\sqrt{150+a}=$？(2分)

4. 已知 x 為正整數，且符號〔$\sqrt{x}$〕表示 $\sqrt{x}$ 的整數部分，例如〔$\sqrt{6}$〕$=2$，〔$\sqrt{11}$〕$=3$；若〔$\sqrt{1}$〕+〔$\sqrt{2}$〕+〔$\sqrt{3}$〕+……+〔$\sqrt{n}$〕$=38$，則 $n=$？(5分)

高雄市立鼓山高中109學年度第一學期第一次段考《國二》自然科試題卷

考試範圍：第三冊一、二章　　電腦讀卡代碼：12　　___年___班___號　姓名_____

一、基本題(每題3分，共42分)

1.(　)下列何者是純物質？(A)糖水　(B) 蒸餾水　(C)汽水　(D)食鹽水。

2.(　)小智以同一直尺測量便條紙的長度數次，所得結果分別記錄為：82.3毫米、81.6毫米、81.8毫米、61.5毫米、81.3毫米，則最終應記錄為多少較合理？　(A)77.7毫米　(B)81.75毫米　(C)81.8毫米　(D)82.3毫米。

3.(　)下列哪些是天平使用時，該注意的事項？(甲)使用前應先轉動校準螺絲，使天平歸零；(乙)為了節省時間，可以用手直接取放砝碼；(丙)待測物應置於左盤中，砝碼則放置在右盤中央。
(A)甲乙 丙　(B)甲乙　(C)乙丙　(D)甲丙。

4.(　)鬼鬼在飲料店買了一杯400 c.c. 的珍珠奶茶，她想知道珍珠占了多少體積，於是她將奶茶倒入數個量筒中，直到液體全部倒完，結果如圖所示，請問珍珠的體積共多少 cm^3？

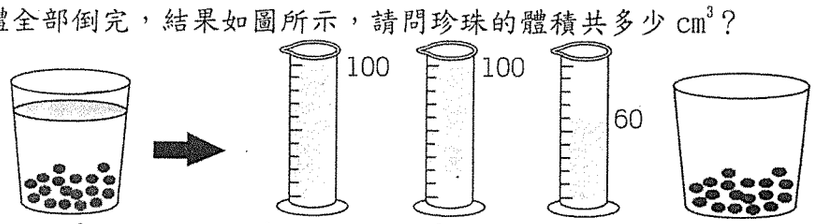

(A) 350 cm^3　(B) 190 cm^3　(C) 140 cm^3　(D) 90 cm^3。

5.(　)小強取一重量百分率濃度為10%的食鹽水溶液20公克，請問此溶液中含有多少公克的純水？
(A) 20公克　(B) 18公克　(C) 8公克　(D) 2公克。

6.(　)物質均是由粒子所組成，而固體、液體、氣體，何者的體積是不固定的？(A)固體 (B)液體 (C)氣體　(D)一樣大。

7.(　)小明撿到一枚金屬戒指，想起學過的密度概念，想藉由密度來判斷這枚戒指是由哪一種金屬所製成。他利用天平及排水法測得此枚戒指質量為26.25 g，體積2.5 cm^3，對照表中密度，你知道小明撿到的是哪一種戒指嗎？

金屬	金	銀	銅	鐵
密度 (g/cm^3)	19.3	10.5	8.9	7.9

(A)金戒指　(B)銀戒指　(C)銅戒指　(D)鐵戒指。

8.(　)分離食鹽水可以使用以下哪些方法？(甲)過濾法；(乙)結晶法；(丙)色層分析法；(丁)排水法。
(A)甲乙丙　(B) 甲乙　(C)丙丁　(D)乙丙。

9.(　)一般紅酒的酒精濃度為12度，代表的意義為下列何者？(A) 100毫升的水中加入12毫升的酒精 (B) 100公克的水中加入12公克的酒精　(C) 100公克的紅酒中含有12公克的酒精　(D) 100毫升的紅酒中含有12毫升的酒精。

10.(　)喬喬觀察兩個裝有水的燒杯如圖所示，當時室溫為25℃，左邊的燒杯內裝有0℃、100 g的水，右邊的燒杯內裝有100℃、100 g的水，則兩個燒杯各在何處最先有霧狀的小水珠出現？

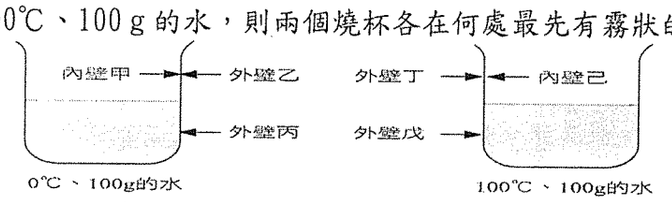

(A)甲和丁　(B)乙和戊　(C)甲和己　(D)丙和己。

11.(　)有關空氣中各種氣體的敘述，下列何者正確？(A)空氣為一種純物質　(B)氧氣是空氣中含量最多的氣體　(C)空氣中只含有氧氣和氮氣　(D)氧氣可以助燃。

12.(　)孟純以最小刻度為0.1 mm的直尺，測量書本寬度剛好為20 cm，請問下列何者為最正確的測量結果？　(A) 20 cm　(B) 20.0 cm　(C) 20.00 cm　(D) 20.000 cm。

13.(　)阿翰想要知道紅色的水性筆是由哪些顏料所組成，你會建議他用哪種方法進行實驗？
(A)排水法　(B)排水集墨法　(C)色層分析法　(D)結晶法。

14.(　)體積 100 立方公分、溫度為 4℃的水，若將其放入冰箱，凝固成密度為 0.92 公克／立方公分的冰塊，則此冰塊的質量為多少公克？(A) 111.1 公克　(B) 109 公克　(C) 100 公克　(D) 90 公克

一、 進階題(每題2分，共34分)

15.(　)老師將鋅塊切成體積比為 1：2 的ㄅ、ㄆ兩塊，請四位學生記錄其質量比與密度比如表，則下列何者正確？

ㄅ：ㄆ	質量比	密度比
甲	1：2	1：1
乙	1：2	1：2
丙	1：1	1：1
丁	1：1	1：2

(A)甲　(B)乙　(C)丙　(D)丁。

16.(　)游國海在準備中秋烤肉的食材，先將(甲)玉米切半，再從(乙)奶油罐中將奶油挖出，塗在玉米上並包覆錫箔紙，放到烤盤，因(丙)錫箔紙導熱加速(丁)奶油熔化，10 分鐘後香噴噴的(戊)熟玉米出爐。試問以上畫線部分所描述的過程，哪些為物理變化？　(A)(甲)(戊)　(B)(甲)(乙)(丁)　(C)(甲)(丙)(丁)　(D)(甲)(乙)(丙)(丁)。

17.(　)某溫度時飽和食鹽水的重量百分濃度為 20%，同溫下將 40 g 食鹽置入各種不同的水量中，何者恰可形成飽和溶液？(無任何食鹽沉澱)　(A) 20 g　(B) 80 g　(C) 160 g　(D) 200 g。

18.(　)俠客使用上皿天平測量物體質量，當天平平衡時，右盤上的砝碼為：50 公克一個、20 公克兩個、1 公克 5 個；則此物體的質量應記錄為多少？　(A) 71 公克　(B) 71.0 公克　(C) 95 公克　(D) 95.0 公克。

19.(　)如圖所示，在測量前發現天平指針偏右，想要歸零時，應如何調整甲、乙兩校準螺絲？



(A)甲固定，乙向左旋入　(B)甲固定，乙向右旋出　(C)乙固定，甲向右旋入　(D)乙向左旋入，甲向右旋入。

20.(　)(甲)冰的熔化；(乙)碘的昇華；(丙)汽油揮發；(丁)蛋白質在胃腸中的消化；(戊)金飾物的打造；(己)米煮成飯。以上屬於化學變化的有幾種？　(A) 5 種　(B) 4 種　(C) 3 種　(D) 2 種。

21.(　)三個廣口瓶分別裝入氧氣、氮氣、二氧化碳三種氣體，用下列何者可鑑別出二氧化碳？(A)澄清石灰水　(B)氫氧化鈉溶液　(C)潮溼的石蕊試紙　(D)燃燒的木條。

22.(　)下列何種方法可以提高冰糖在水中的溶解速率及溶解度？　(A)先將冰糖顆粒敲碎，並磨成粉末　(B)將水加熱，提高水溫　(C)室溫下快速攪拌糖水溶液　(D)加入更多的水。

23.(　)小明想要養一些金魚，下列哪一種水最可能會讓他的金魚因缺氧而死？　(A)河水　(B)煮沸後剛冷卻的水(C)礦泉水　(D)湖水。

24.(　)如圖，兩個大小不同的燒杯，甲杯裝水 50 mL，乙杯裝水 100 mL，則下列敘述何者正確？

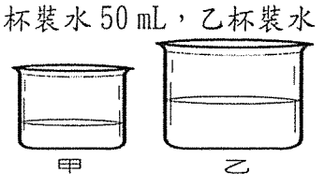

(A)乙杯的水質量較大，但兩杯水的密度相等　(B)甲、乙兩杯水的密度相等，質量也相等　(C)乙杯水的質量較大，密度也較大　(D)乙杯水的體積較大，所以密度較小。

25.(　)一枝鉛筆的兩端各對準直尺(最小刻度是 cm)，其刻度數字各為 26 與 38，則此鉛筆長度應該為多少？　(A) 12.00 cm　(B) 12.0 cm　(C) 120.0 mm　(D) 12.0 mm。

26.(　)在食鹽與細砂的分離實驗中，若要分離出食鹽，圖中哪一種器材通常可不必使用到？

(A) 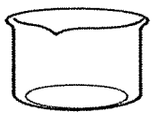
(B) 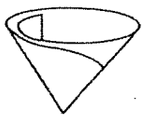
(C)
(D) 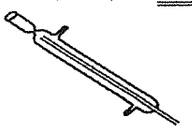

27.(　)設 20℃時，100 公克的水最多可以溶解食鹽 36 公克；若在 200 公克的水中溶入 50 公克的食鹽，則此溶液是何種狀態的溶液？(A)飽和溶液　(B)未飽和溶液　(C)過飽和溶液　(D)膠態溶液。

28.(　)我們在喝熱開水時，怕水燙嘴，常用嘴向水面吹氣，使水涼下來，這是由於下列何者？ (A)向水面吹的是氮氣，氮氣有冷卻的作用 (B)吹出的氣體，溫度比水低，混合後水溫就降低了 (C)向水面吹氣可以加快水的蒸發，蒸發會使熱水本身的溫度降低 (D)吹氣實際上無法使水冷卻，會感覺水涼下來只是心理因素。

29.(　)佩佩喝著加了冰塊的檸檬紅茶，她發覺紅茶愈喝愈不甜，這是因為什麼原因呢？ (A)因為冰熔化成水，所以紅茶中糖水的濃度降低 (B)溫度升高溶解度下降，紅茶中糖水的濃度也降低 (C)因為喝掉紅茶中的糖，使紅茶中糖水的濃度降低 (D)因為冰熔化，糖就被析出，所以紅茶中糖水的濃度降低了。

30.(　)將濃度為 3%、體積為 50 mL 的蔗糖水溶液，倒出 20 mL。下列敘述何者正確？ (A)倒出的 20 mL 水溶液，其濃度大於 3% (B)剩下的 30 mL 水溶液，其濃度大於 3% (C)剩下的 30 mL 水溶液，其濃度小於 3% (D)倒出或剩下的水溶液，其濃度皆等於 3%。

31.(　)已知有三種氣體：空氣、氮氣、氧氣，用什麼物質或方法可以容易地把三者分辨出來？ (A)通入水中，測其溶解度大小 (B)分別放入鋼絲絨 (C)把點燃的火柴放入 (D)測量三者的密度。

二、 題組(每題 3 分，共 24 分)

1. 小智將某液體倒入量筒中，測得液體的體積 V，再置於天平上，測得量筒和液體的總質量 M，如表所示，試回答下列問題：

V（立方公分）	15.0	20.0	25.0	X
M（公克）	40.0	46.0	52.0	64.0

32.(　)此液體的密度為公克／立方公分？ (A)1.0 (B)1.2 (C)1.5 (D)2.0

33.(　)量筒的質量為？公克。 (A)12 (B)22 (C)25 (D)30

34.(　)表中 X 的值為？ (A)35 (B)40 (C)45 (D)50

2. 小華在實驗室中，以金針菇或二氧化錳與雙氧水製造氧氣，其裝置如圖所示，試回答下列問題：

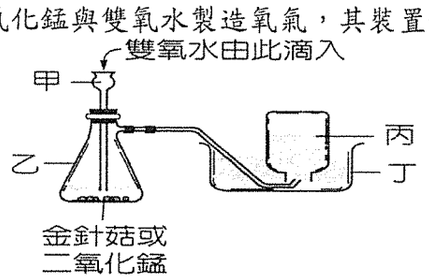

35.(　)若氧氣的生成速率太快時，下列哪一種處理方法最好？ (A)將導管移出水面 (B)拔開甲或乙等器材 (C)取出金針菇或二氧化錳 (D)將廣口瓶拿高一些。

36.(　)收集到氧氣後，廣口瓶應如何放置？ (A) 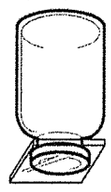 (B) (C) 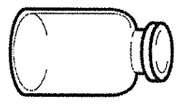 (D)任意放置都可以。

37.(　)下列何種方法可檢測所收集的氣體是否為氧氣？ (A)通入澄清石灰水中，觀察是否沉澱 (B)放入石蕊試紙，觀察其顏色變化 (C)直接放入鎂條，觀察是否氧化 (D)放入快熄滅的線香，觀察是否復燃。

3. 附圖為硝酸鉀在不同溫度下對 100 g 水的溶解度，試回答下列問題：

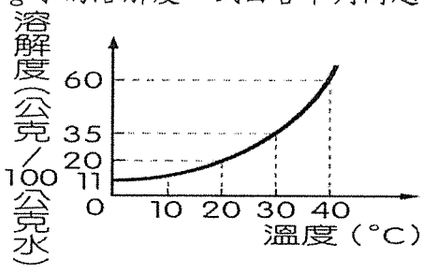

38.(　)取 40℃、640 g 的硝酸鉀飽和溶液冷卻到 20℃，則有多少公克硝酸鉀會析出？ (A) 40 g (B) 80 g (C) 120 g (D) 160 g。

39.(　)在 40℃時，硝酸鉀飽和溶液的重量百分濃度為何？ (A) 16.7% (B) 25.9% (C) 37.5% (D) 60.0%。

高雄市立鼓山高中109學年度第一學期第一次段考《國二》歷史科試題卷

考試範圍：第3冊第1.2課p.74-85　　**電腦讀卡代碼：08**　　____年____班_____號　姓名_____

一、選擇題：每題4分，共60分

(　　)1. 商周建立統治政權以來，統治者為了管理新取得的疆土，便賜予宗室、姻親、功臣土地及治理地方的權力，藉此穩固統治，上述所推行的制度應該是下列何者？ (A)察舉制度 (B)封建制度 (C)郡縣制度 (D)科舉制度。

(　　)2. 春秋時代，何人以管仲為相，改革內政、獎勵工商，並以「尊王攘夷」為號召，成為中原的霸主？ (A)晉文公 (B)楚莊王 (C)齊桓公 (D)秦穆公。

(　　)3. 他是下列何人自稱「德兼三皇，功過五帝」，首創「皇帝」稱號，他是中國歷史上的第一個「皇帝」？ (A)楚莊王 (B)周武王 (C)秦始皇 (D)漢武帝。

(　　)4. 秦朝建立之後，在政治體制上推動「廢封建，行郡縣」的主要目的是什麼？ (A)建立地方分權的制度 (B)確立中央集權的體系 (C)奠定地方自治的基礎 (D)解決中央權大的問題。

(　　)5. 秦朝為加強統治各地，並讓民眾的經濟交易及往來更為便捷。請問：哪些是當時統一的制度？ (甲)度量衡 (乙)文字 (丙)貨幣 (丁)車軌。正確的是：(A)甲乙丙 (B)甲丙丁 (C)乙丙丁 (D)甲乙丙丁。

(　　)6. 下圖是戰國時代的地圖，以甲至庚代表戰國七雄，哪一地區，重用商鞅的富國強兵政策，而成為當時最富強的國家？又最後是由哪一個國家統一天下？ (A)丁－燕國　(B)戊－齊國　(C)己－秦國　(D)庚－秦國。

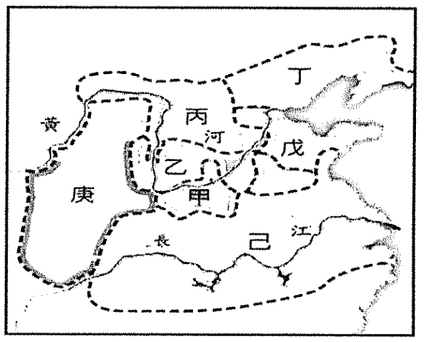

(　　)7. 中國歷史上朝代的更迭，各有其原因，西晉演變成五胡十六國和東晉局面，與下列哪個事件的關係最密切？ (A)永嘉之禍 (B)犬戎入侵 (C)秦滅六國 (D)漢武帝征討匈奴。

(　　)8. 聯合國教科文組織將中國的洛陽龍門石窟與大同雲岡石窟，列為世界文化遺產，這兩處世界文化遺產具有下列何項共同特色？ (A)帝王陵寢的經典建築 (B)佛教藝術的代表古蹟 (C)抵禦強敵的軍事工程 (D)隋唐城市建築的遺址。

(　　)9. 春秋戰國時代，開始出現貴族沒落、平民崛起的現象，主要因素為何？ (A)傳染病大流行，人口銳減 (B)貴族完全沒有行政能力 (C)國君以才能為用人標準 (D)物價飆漲，貴族變成窮人。

(　　)10. 北魏孝文帝所推行的漢化，對中國歷史的發展產生哪個重要的影響？ (A)禁說胡語，改說漢語，促進中國語言的統一 (B)嚴禁胡漢通婚，使得中國婚姻制度改變 (C)鮮卑貴族贊成漢化，北魏再次遷都南京 (D)有助於北方胡漢之間的融合。

(　　)11. 唐太宗曾說：「自古以來君主都重視漢人，歧視外來胡族，可是我能夠不分胡漢，一視同仁。」請問：唐太宗這句話所反映的史實與意義為何？
(A)唐朝不論前期或後期，皆能以包容態度對待外族 (B)此為唐太宗自誇，實際上胡人很少擔任唐朝官員 (C)這是唐朝皇室具胡人血統且胡漢長期交流的成果 (D)其實魏晉南北朝的胡族君主對胡漢都能一視同仁。

(　　)12. 「南京」簡稱寧，別稱金陵、石頭城，位於長江下游沿岸，因為地勢險要，隋唐之前有六個朝代在此建都，所以又稱「六朝」古都。六朝對江南的開發貢獻很大，是中國經濟重心逐漸南移的關鍵時代。請問：六朝當中『不』包括哪一個朝代？ (A)南朝宋 (B)東漢 (C)孫吳 (D)東晉。

(　　)13. 隋唐時期，佛教宗派林立，這些宗派融入中國思想文化，完成了佛教的中國化，其中以哪一宗派最具代表性？ (A)淨土宗 (B)唯識宗 (C)密宗 (D)禪宗。

(　　)14. 唐朝時，中國哪一項科技外傳，影響後世西方文化的發展？ (A)造紙術 (B)指南針 (C)印刷術 (D)火藥。

(　　)15. 請將以下朝代按照發生先後順序排列。(甲)東漢 (乙)隋代 (丙)秦 (丁)周朝 (戊)魏晉南北朝 (己)商朝。正確的是：(A)己丁甲丙戊乙 (B)己乙丙甲丁戊 (C)己丁丙甲戊乙 (D)甲乙丙丁己戊。

二、整合題：每題4分，共40分

A. 從公元前3世紀到公元2世紀，近五百年來的時段，匈奴一直是中原王朝的最大外患之一。中原王朝對於匈奴的策略，也隨著情勢的不同而有所轉變。譬如：秦朝連結戰國時代各國的長城，東西長達數千公里。西漢初期，朝廷無力對抗敵國，

只好採取和親與貿易的手段換取邊境的和平，一直到漢武帝時，才對匈奴採取征伐政策。請問：

(　　)16. 漢代所稱的「大秦」，是指當時西方的哪一帝國？ (A)羅馬帝國 (B)波斯帝國 (C)阿拉伯帝國 (D)土耳其帝國。

(　　)17. 下圖是漢朝的疆域，當時漢朝會將疆擴展至甲區(新疆)，主要是下列哪個因素的關係？ (A)平定黃巾之亂 (B)張騫出西域 (C)加強與各國的貿易 (D)擴張國家的領主。

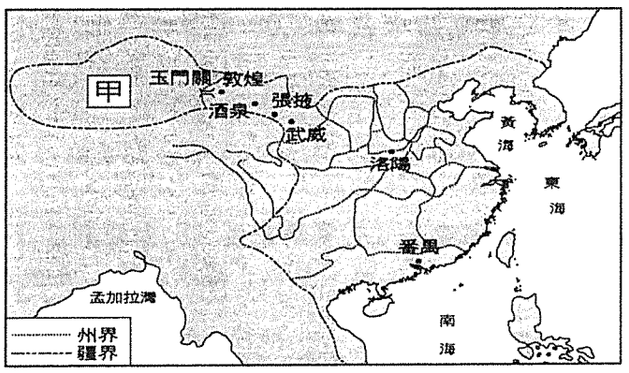

(　　)18. 歷史學家一般認為，張騫出使西域最大的貢獻並不是改變漢朝對匈奴的作戰情勢，而是打通了一條連結中國與西方的貿易通道。這條「絲路」的開通，促進了東西文化的交流，其中又以哪個宗教的傳入，對中國文化影響極為深遠？ (A)佛教 (B)道教 (C)伊斯蘭教 (D)基督教。

B、商周至隋唐時期，由於時代環境與政府需求不同，不同時期會有不同的選才制度。請問：

(　　)19. 漢朝朝廷選官時多以熟讀哪家學術經典為標準，使累世為官的經學世家地位漸形重要？ (A)法家 (B)儒家 (C)道家 (D)墨家。

(　　)20. 魏晉南北朝時期曾出現「上品無寒門，下品無世族」的社會現象，造成此現象的原因為何？ (A)胡人政權的建立 (B)察舉孝廉制度的推行 (C)九品官人之法的實施 (D)漢化政策的推動。

(　　)21. 「隋唐時，這個制度出現以後，人才的選擇不再看重家世背景，而是強調個人的才學。及第者有機會在政府擔任官職。相較之前僅重世的舉才方式，這種方式似乎公平許多。」此制度指的是下列何者？ (A)封建制度 (B)推舉孝廉 (C)九品官人之法 (D)科舉制度。

(　　)22. 「各地州郡長官每年必須向政府推舉『孝子』、『廉吏』各一人，以因應政府取才的需求，若有違反則將追究相關事責。」這應該是何時期的取才情況？ (A)秦朝 (B)漢朝 (C)西周 (D)商朝。

(　　)23. 請參考以下世族門第興衰的趨勢圖。並依圖回答問題：

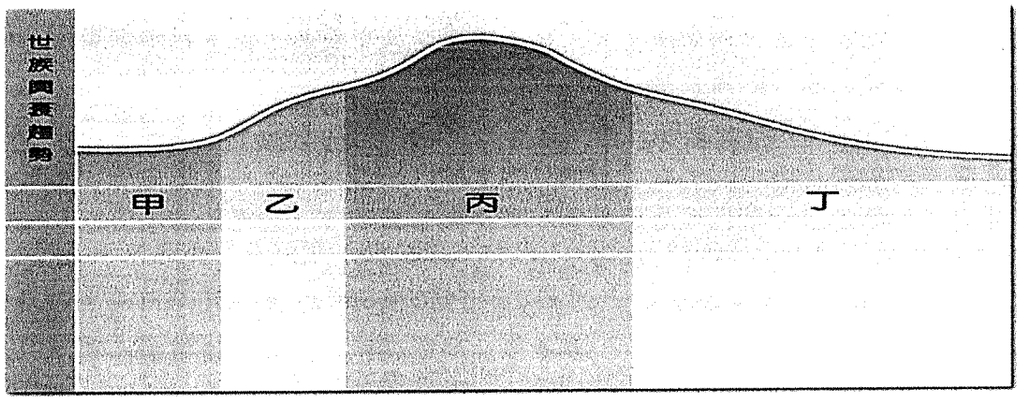

圖中曲線不斷呈現向上爬升的情形，這與哪一個制度的實施有關？ (A)九品官人法 (B)宗法制度 (C)科舉制度 (D)薦舉制度。

C. 唐朝國力強盛，文化內涵豐富，對周邊民族影響甚深。請問：

(　　)24. 附圖是某國文字與中國漢字間的關係。請問：這是今天哪個國家的文字？ (A)韓國 (B)越南 (C)沙烏地阿拉伯 (D)日本。

片假名	阿 ア	加 カ
	伊 イ	千 チ
平假名	安 安 あ	加 加 か
	以 以 い	知 知 ち

(　　)25. 隋唐時代以來，胡人商旅來華貿易頻繁，使胡風、胡樂、胡食在中國盛極一時，各地充斥著胡人文化的色彩，由此可顯示唐朝的時代特色為何？ (A)充滿異國風情的多元風貌 (B)夷夏之防嚴格 (C)有崇洋媚外的色彩 (D)喜好標新立異的風格。

高雄市立鼓山高級中學國中部109學年度第1學期第1次段考二年級地理科試題

考試範圍：第一、二章

科目代碼：08　　班級：　　座號：　　姓名

一、選擇：(每題4分，共100分)

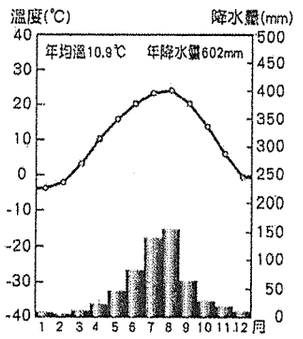

圖一

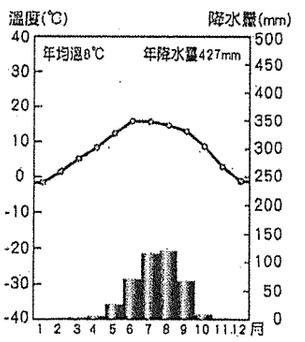

圖二

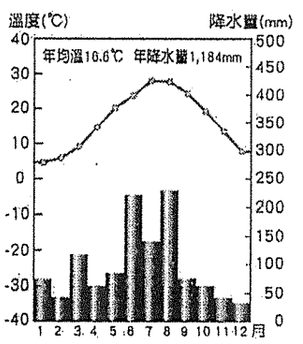

圖三

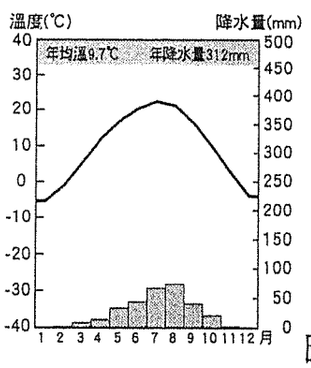

圖四

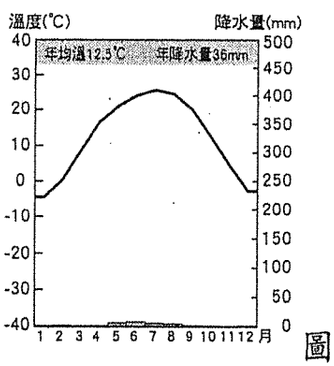

圖五

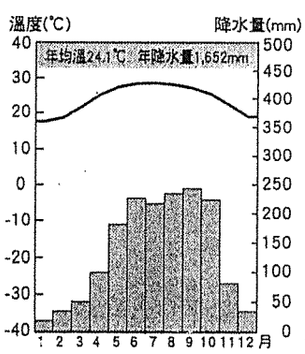

圖六

26. (　) 請問圖一為哪一種氣候？(A)熱帶季風(B)副熱帶季風(C)溫帶草原氣候(D)溫帶季風氣候
27. (　) 請問圖二為哪一種氣候(A)溫帶草原氣候(B)高地氣候(C)溫帶沙漠氣候(D)熱帶季風氣候
28. (　) 請問圖三為哪一種氣候？(A)副熱帶季風(B)熱帶季風(C)溫帶草原氣候(D)溫帶沙漠氣候
29. (　) 請問圖四為哪一種氣候？(A)熱帶季風(B)副熱帶季風(C)溫帶草原氣候(D)溫帶沙漠氣候
30. (　) 請問圖五為哪一種氣候(A)溫帶沙漠氣候(B)溫帶草原氣候(C)高地氣候(D)熱帶季風氣候
31. (　) 請問圖六為哪一種氣候？(A)溫帶沙漠(B)熱帶季風氣候(C)高地氣候(D)副熱帶季風氣候
32. (　) 中國以何處作為水田農業區與旱地農業區的分界線？ (A)黑河至騰衝 (B)南嶺 (C)長城 (D)秦嶺、淮河。
33. (　) 中國農人為解決耕地不足的問題，常在下列哪種地形區沿等高線開闢梯田，種植茶和果樹等作物？ (A)高原 (B)平原 (C)丘陵 (D)三角洲。
34. (　) 中國地勢呈三級階梯，主要呈現下列何種地勢起伏？ (A)西高東低 (B)西低東高 (C)南高北低 (D)南低北高。
35. (　) 附表為中國民族數量前三名統計表，其中乙民族最有可能為哪一個民族？ (A)滿族 (B)藏族 (C)壯族 (D)蒙古族。

民族	比例
甲	92%
乙	1.24%
丙	0.816%

36. (　) 中國人口眾多具有哪一項潛力？ (A)糧食生產不足 (B)人口素質較低 (C)人口過度集中 (D)勞動力充足。
37. (　) 西藏吃到了藏人招待的「糌粑」。請問：這種食物應是由何種穀物製成？ (A)稻米 (B)玉米 (C)小米 (D)青稞。
38. (　) 下列哪種牲畜是內蒙古的主要交通工具，有「沙漠之舟」的美稱？ (A)天馬 (B)犛牛 (C)駱駝 (D)山羊。
39. (　) 青藏高原天空碧藍、太陽輻射強，日照非常充足，主要是受哪一項因素影響？ (A)緯度較低 (B)距海較遠 (C)地勢較高 (D)高壓中心。
40. (　) 中國的氣候依其特性分為季風、乾燥、高地等三大氣候區。請問：季風氣候區的年降水

量定義，最少須達到多少mm以上？ (A)100 (B)250 (C)500 (D)750。

41.(　)新疆塔里木盆地發展綠洲農業，是利用什麼水源來灌溉作物？ (A)雨水 (B)河水 (C)雪水 (D)海水。

42.(　)下列哪一個國家的人口總數已經超過14億，是目前全球人口數最多的國家？ (A)韓國 (B)中國 (C)美國 (D)日本。

43.(　)下列哪種牲畜，毛皮厚而長，耐寒力特強，且善於爬山負重，是西藏牧區當地的重要役畜，有「高原之舟」之稱？ (A)馬 (B)羊 (C)犛牛 (D)駱駝。

44.(　)「高氣壓籠罩在蒙古一帶，風向是從陸地吹向海洋。」上述情形應發生在哪一個季節？ (A)春季 (B)夏季 (C)秋季 (D)冬季。

45.(　)中國族群多元，少數民族大致上有55族。附圖為中國少數民族分布圖，請問造成圈起處少數民族多元複雜的原因為何？ (A)氣候 (B)地形 (C)交通 (D)產業。

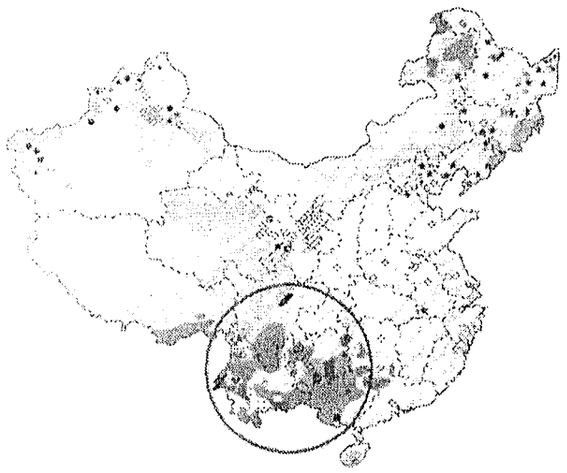

46.(　)中國現行的行政分區中，劃分成22個省、5個自治區、4個直轄市以及2個特別行政區。請問:特別行政區分別為下列何者？ (A)澳門和深圳 (B)香港和深圳 (C)香港和澳門 (D)香港和海南。

47.(　)中國人口眾多、成長快速，雖然過往實施「一胎化政策」，使得自然成長率大幅下降，但為何人口增加的數量依然很多？ (A)人口總數多 (B)社會增加率高 (C)小家庭的林立 (D)全民健保的實施。

48.(　)中國最高階梯的東面和北面為次高，平均高度約1,500公尺。請問：下列哪一個地形區位在次高階梯？ (A)東北平原 (B)青藏高原 (C)東南丘陵 (D)塔里木盆地。

49.(　)中國東半部為季風氣候，其形成的主要原因有哪些？(甲)位居亞洲大陸的東南部 (乙)位居中緯度地區 (丙)地形複雜 (丁)瀕臨太平洋 (A)甲乙 (B)甲丙 (C)甲丁 (D)丙丁。

50.(　)目前中國設有四個直轄市，其中哪一個直轄市所處的緯度最低？ (A)天津 (B)北京 (C)重慶 (D)上海。

鼓山高中國中部109學年度第一學期八年級社會科(公民)第一次月考

作答:■劃記答案卡 科目代號:08	範圍: 第一課～第二課(2-1 2-2)	試卷頁數: 共3頁	_____年 _____班 座號：_____ 姓名：_____

一、選擇題：每題4分

51. (　) 下列哪一項要素不是組成國家的必要要素? (A) 人民 (B) 國旗 (C) 政府 (D) 主權

52. (　) 西元 2014 年 9 月，在眾人的關注下，蘇格蘭獨立公投以 55%反對獨立，險勝了 45%的獨立支持者，確定蘇格蘭將繼續隸屬於英國。然而，即便英國的政治版圖沒有更動，這次公投仍然稱得上是當年最重要的國際事件之一，因為其潛在的巨大震盪，將從英國國內影響到歐盟全區，甚至全世界。根據上述判斷，蘇格蘭主要因缺乏哪項國家組成要素，而不是獨立的國家？(A)人民 (B)領土 (C)政府 (D)主權

53. (　) 請問我國的國籍是如何取得? (A) 只要在台灣出生就有中華民國國籍 (B) 只要來台灣定居超過十年就有中華民國國籍 (C) 只要父母其中一人有中華民國國籍的，一出生就有中華民國國籍 (D) 只要來台灣工作或投資超過五年，就有中華民國國籍。

54. (　) 外交部網站可以查詢到我國邦交國的簡介，下面是我國在非洲唯一的邦交國「史瓦帝尼王國(原史瓦濟蘭王國)」的簡介。請問:哪項敘述屬於國家組成的要素? (A) 甲 (B) 乙 (C) 丙 (D) 丁

> 史瓦帝尼王國(原史瓦濟蘭王國)」位於非洲南部內陸國，北、西、南為南非所包圍，東面與莫三比克相鄰，總人口約 130 萬(甲)，人民信奉的宗教比例為基督教 40%、天主教 20%、伊斯蘭教 10%，餘為傳統宗教(乙)。英語與一般民眾使用的史瓦濟語(Siswati)，皆為官方語言(丙)，國旗由一個圖騰圖案，兩條藍色、黃色與一條紅色的橫條組成。紅色象徵歷史上的戰鬥，黃色代表礦藏資源，藍色象徵和平(丁)。

55. (　) 政府和國家的關係哪個不正確? (A) 國家的範圍較廣，政府範圍較小 (B) 國家擁有統治權，政府有主權 (C) 國家是一個永久持續性的存在，政府則是短暫、可改變的組織。 (D) 國家的事務必須由政府來執行，政府的權力由國家賦予。

56. (　) 我國籍遠洋漁船上，船長與漁工的對話如下：漁工小義：「船長，我們可以下網捕魚了嗎？」船長小城：「沒問題，我們的船已經開到可自由捕魚的公海上了。」根據上述內容判斷，小城的船隻最可能位於附圖中哪一個位置？ (A)甲 (B)乙 (C)丙 (D)丁。【105 教育會考】

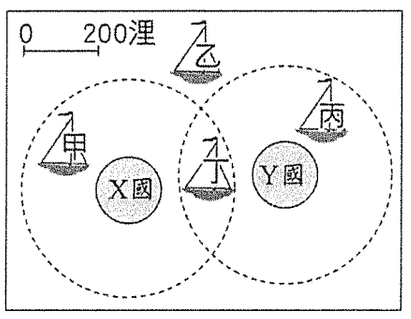

57. (　) 孫中山先生所提出的「五權分立」學說，是以哪位學者所提的「三權分立」學說為基礎? (A)牛頓 (B) 艾克頓 (C) 孟德斯鳩 (D)盧梭。

58. (　) 呈上題，「五權分立」與的「三權分立」最大的差異為？(A) 行政權與考試權彼此結合 (B) 考試權與監察權特別獨立出來 (C) 司法權獨立於行政、立法權之外 (D) 行政權和立法權互相制衡。

5/n

59. （　）下圖為怡君在報紙看到的敘述，公聽會的設計主要是實現民主政治的何種精神? （A）民意政治 （B）法治政治 （C）政黨政治 （D）責任政治。

如何辦好一場公聽會？
舉辦公聽會是為民服務的重要活動，不論是應用在學生自治活動、一般民間組織、甚或國會、地方議會等，都是相當實用的。而公聽會的功能通常包括：協調各方利益、深入了解事實、製造新聞話題、作公共關係。

60. （　）下列敘述哪個正確? （A）行政院院長由總統直接任命，任期與總統相同四年。（B）正副總統的彈劾案，是由立法院提案，公民複決。（C）高雄地方法院的主管機關為高雄市政府。（D）立法院負責「預算」，監察院負責「決算」

61. （　）今年年初我國舉行總統大選，民主進步黨的蔡英文贏得勝選，隨即組成執政團隊，並由行政院院長蘇貞昌宣布內閣名單，共同開創新局面。請問：關於總統的敘述，下列何者正確？ (A)由人民直接選舉產生 (B)任期六年 (C)總統副總統的罷免案由人民直接提案 (D)立法院合議審理總統副總統的彈劾案。

62. （　）責任政治是民主政治的特色之一，下列選項哪個符合責任政治的精神? (A) 教育部舉辦公聽會，聽取流浪教師的意見。 (B)每逢重要節日宣布高速公路的交通管制措施。 (C) 每逢重要節日宣布高速公路的交通管制措施。 (D) 總統府發言人丁允恭被前女友爆料私人感情行為不檢，丁允恭表示個人行為違反社會期待，請辭總統府發言人一職，並獲允准。

63. （　）國家發展委員會於 104 年 2 月 10 日建置「公共政策網路參與平臺」，讓人民的意見能夠有效傳達至政府部門，作為全民參與公共事務的管道。此平台的設計，符合是民主政治的哪樣特色? （A）民意政治（B）責任政治（C）法治政治（D）政黨政治

64. （　）美國政治學者杭廷頓曾說：「一個國家必須要經歷兩次政黨輪替，這樣的民主才稱得上是進步。」這樣的說法，展現民主政治何種特色? （A）民意政治（B）責任政治（C）法治政治（D）政黨政治。

65. （　）關於重要官員與其產生方式之配對，下列何者錯誤?（A）總統、副總統:由人民直選（B）行政院院長:由總統提名，經立法院同意後任命 （C）立法院院長、副院長:由立法委員互選 （D）考試院院長、副院長:由總統提名，經立法院同意後任命。

66. （　）下列官員哪個任期是不固定的? （A）總統、副總統（B）行政院院長（C）立法委員 （D）考試院院長。

67. （　）下列哪個行為不是總統的職權? （A）立法院通過的法律，由總統公布。（B）陸海空三軍統帥（C）彈劾總統府內失職的公務人員（D）決定國家安全大政方針。

68. （　）下列哪個行為不是立法院的職權? （A）同意總統所任命的大法官人選（B）通過同性婚姻合法化的法律（C）為降低選舉年齡，提出憲法修正案（D）統一解釋法律、命令，消除社會對法律違憲的疑慮。

69. （　）下列哪個行為不是行政院的職權? （A）設置「口罩供需資訊平台，讓民眾方便買口罩」 （B）設置「108 課綱資訊網」，讓社會大眾了解 108 課綱的精神與實施方法。（C）設置法院，處理民眾的訴訟案件。 （D）設置公共托嬰服務，讓新生兒父母可以安心工作。

70. （　）下列哪個行為不是考試院的職權? （A）設立銓敘部，負責考核公務員任用資格。（B）辦理專門職業及技術人員（如律師、醫事人員）資格的檢定。（C）辦理公務員退休事宜。（D）設立懲戒法院，對違法的公務

員判刑。

71. （　）下列哪個行為不是監察院的職權？（A）負責政府的決算（B）針對政府的不當施政提出糾正（C）針對行為不當的公務人員，向其主管長官或上級長官提出糾舉（D）針對總統的不法之處，提出彈劾案。

72. （　）下列哪個政府首長的主張，最符合他自己的身分？（A）行政院院長：「我要求全國各機關，全面做好防疫工作。」　（B）司法院院長：「我希望將來可以推動房屋租稅法案的修訂。」（C）考試院院長：「我會鼓勵委員主動調查是否有公務人員違法或失職，而予以彈劾。」（D）監察院院長：「我要為國家爭取進入世界衛生組織。」

73. （　）依據「行政院組織法」，行政院設有 14 個部。請問:下列何者不是 14 個部之一？ (A) 內政部 (B) 衛生福利部 (C)審計部 (D) 教育部。

74. （　）下列哪些提案，不需要交由公民複決？（A）總統副總統的彈劾案（B）總統副總統的罷免案（C）憲法修正案。

75. （　）下列哪個權力不是司法院所擁有的? (A) 解釋權 (B) 審判權 (C) 懲戒權 (D) 糾正權。